PREFEITURA DO MUNICÍPIO DE JAGUARIÚNA

ESTADO DE SÃO PAULO

CONCURSO PÚBLICO

015. PROVA OBJETIVA

GUARDA MUNICIPAL – 3ª CLASSE (FEMININO)

GUARDA MUNICIPAL – 3ª CLASSE (MASCULINO)

- Você recebeu sua folha de respostas e este caderno contendo 50 questões objetivas.
- Confira seus dados impressos na capa deste caderno e na folha de respostas.
- Quando for permitido abrir o caderno, verifique se está completo ou se apresenta imperfeições. Caso haja algum problema, informe ao fiscal da sala para a devida substituição desse caderno.
- Leia cuidadosamente todas as questões e escolha a resposta que você considera correta.
- Marque, na folha de respostas, com caneta de tinta preta, a letra correspondente à alternativa que você escolheu.
- A duração da prova é de 3 horas, já incluído o tempo para o preenchimento da folha de respostas.
- Só será permitida a saída definitiva da sala e do prédio após transcorrida 1 hora do início da prova.
- Deverão permanecer em cada uma das salas de prova os 3 últimos candidatos, até que o último deles entregue sua prova, assinando termo respectivo.
- Ao sair, você entregará ao fiscal a folha de respostas e este caderno.
- Até que você saia do prédio, todas as proibições e orientações continuam válidas.

AGUARDE A ORDEM DO FISCAL PARA ABRIR ESTE CADERNO.

Nome do candidato

RG | Inscrição | Prédio | Sala | Carteira

FUNDAÇÃO vunesp

Confidencial até o momento da aplicação.

Confidencial até o momento da aplicação.

CONHECIMENTOS GERAIS

Língua Portuguesa

Leia o texto para responder às questões de números **01** a **06**.

Confinamento na pandemia faz crescer casos de miopia em crianças

As crianças, especialmente aquelas com idades entre 6 e 8 anos, estão ficando mais míopes na pandemia. Segundo oftalmologistas, os períodos mais longos dentro de casa, longe da luz natural e encarando telas pequenas sem descanso, são os principais responsáveis pelo aumento de casos do distúrbio nessa faixa etária.

Em um artigo publicado em janeiro deste ano na revista científica *Jama Ophthalmology*, pesquisadores da China relatam que, em 2020, o número de casos de miopia nas crianças entre 6 e 8 anos cresceu até três vezes em comparação com os cinco anos anteriores. No Brasil, a situação é semelhante. Com as aulas regulares interrompidas há mais de um ano e as medidas restritivas para diminuir a circulação de pessoas e evitar a transmissão da Covid-19, os mais jovens passaram muito mais tempo dentro de casa no ano de 2020. As consequências já são percebidas nos consultórios médicos.

Segundo o oftalmologista Emerson Castro, do Hospital Sírio-Libanês, o esperado era que os atendimentos diminuíssem durante a pandemia, mas isso não aconteceu: "Estou atendendo mais pacientes agora. O olho é a nossa comunicação com o mundo e todos o estão usando ainda mais neste período, crianças e adultos", diz.

A miopia é a dificuldade para enxergar coisas que estão mais longe. O distúrbio visual surge quando o olho cresce mais do que deveria, e isso dificulta ver com clareza coisas mais distantes. No caso dos mais jovens, os médicos apontam alguns motivos para o aumento da miopia. O primeiro seria o uso de telas, principal distração durante o confinamento.

Para evitar que o problema apareça, os especialistas sugerem descansos periódicos a cada 30 minutos ou 1 hora de uso contínuo de tela. Os médicos alertam ainda que telas muito pequenas, como as de telefones e *tablets*, são as mais prejudiciais. Computadores e televisões geralmente ficam mais distantes dos olhos e fazem menos mal.

(Everton Lopes Batista. https://www1.folha.uol.com.br/equilibrioesaude/. 19.04.2021. Adaptado)

01. Conforme as informações do texto, com as medidas restritivas por causa da Covid-19,

(A) as crianças viram-se forçadas ao confinamento em casa, resultando no desenvolvimento observado por especialistas de severos distúrbios relacionados à aprendizagem.

(B) a interrupção das aulas na tentativa de manter crianças em casa foi ineficaz para conter a contaminação, já que é grande a quantidade delas buscando atendimento médico.

(C) o cotidiano de confinamento permitiu aos pais observarem o uso abusivo de eletrônicos pelas crianças, resultando em aumento de busca por tratamento para esse problema.

(D) os longos períodos em que crianças ficaram privadas da luz natural e expostas a telas de eletrônicos foram determinantes para o aumento de distúrbios visuais.

(E) os especialistas têm se mostrado bastante preocupados com a dificuldade entre os mais jovens para voltar a frequentar ambientes públicos e reestabelecer o convívio social.

02. A expressão destacada na frase do último parágrafo – **Para evitar** que o problema apareça, os especialistas sugerem descansos periódicos a cada 30 minutos... – estabelece relação com sentido de

(A) causa.

(B) oposição.

(C) finalidade.

(D) explicação.

(E) consequência.

03. O último parágrafo do texto permite concluir que

(A) a crença de que realizar pausas no uso do celular possa prevenir distúrbios que suas telas causam aos olhos é contestada por especialistas.

(B) o uso contínuo de tela tanto em aparelhos menores, como celulares, quanto em televisores é igualmente prejudicial à saúde dos olhos.

(C) os médicos são unânimes em defender que aparelhos eletrônicos maiores, por ficarem distante dos olhos, são inofensivos à visão.

(D) o uso próximo aos olhos e o longo tempo de exposição às telas são fatores que tornam aparelhos portáteis mais prejudiciais à vista.

(E) a qualidade das telas de *tablets* e celulares mais modernos torna esses aparelhos menos prejudiciais à vista do que as televisões.

04. Assinale a alternativa em que, no trecho acrescentado à frase do segundo parágrafo – No Brasil, a situação é semelhante. –, o emprego da crase está em conformidade com a norma-padrão da língua portuguesa.

(A) No Brasil, a situação é semelhante **à** outras verificadas pelo mundo.

(B) No Brasil, a situação é semelhante **à** condição descrita em outros países.

(C) No Brasil, a situação é semelhante **à** quadros observados mundo afora.

(D) No Brasil, a situação é semelhante **à** algumas vistas em outros lugares.

(E) No Brasil, a situação é semelhante **à** várias outras ora enfrentadas.

05. Assinale a alternativa em que a expressão verbal destacada exprime a ideia de hipótese.

(A) As crianças, especialmente aquelas com idades entre 6 e 8 anos, **estão ficando** mais míopes... (1º parágrafo)

(B) ... os mais jovens **passaram** muito mais tempo dentro de casa no ano de 2020. (2º parágrafo)

(C) ... o esperado era que os atendimentos **diminuíssem** durante a pandemia... (3º parágrafo)

(D) A miopia é a dificuldade para **enxergar** coisas que estão mais longe. (4º parágrafo)

(E) O distúrbio visual **surge** quando o olho cresce mais do que deveria... (4º parágrafo)

06. Considere o seguinte trecho redigido a partir do texto:

As crianças têm passado muito tempo longe da luz natural, o que tem _____ causado determinados distúrbios visuais. Para especialistas, o fato de jovens estudantes estarem permanecendo mais tempo em casa obriga-_____ a usar ainda mais os olhos, o que contribui para a maior ocorrência desse problema que _____ atinge nesse período.

De acordo com a norma-padrão da língua portuguesa, as lacunas presentes no trecho devem ser preenchidas, respectivamente, com:

(A) lhes … os … os

(B) lhes … lhes … os

(C) lhes … lhes … lhes

(D) os … lhes … os

(E) os … os … lhes

Leia o texto para responder às questões de números **07** a **10**.

Gosto de escrever sobre cinema com certa regularidade, embora, às vezes, alguém me reprove por só falar de filmes antigos. Mas nem podia ser diferente: minha única ida ao cinema nos últimos dez anos foi para uma sessão especial de "Um Corpo que Cai" (1958) em versão restaurada. Sessão, aliás, memorável, exceto pelos maxilares triturando pipoca ao meu redor e competindo com a música do filme.

(Ruy Castro. O passado logo ali. *Folha de S.Paulo,* 18.07.2021. Adaptado)

07. Com o emprego do adjetivo em destaque na frase – Sessão, aliás, **memorável**... – o autor do texto qualifica a sessão de cinema como algo que

(A) remete a acontecimentos maçantes.

(B) se revelou abaixo das expectativas.

(C) se tornou bastante constrangedor.

(D) é muito difícil de ser compreendido.

(E) merece ser conservado na lembrança.

08. A expressão destacada na frase – Gosto de escrever sobre cinema **com certa regularidade**... – exprime circunstância de

(A) modo, e equivale à expressão "às escondidas".

(B) tempo, e equivale à expressão "de tempos em tempos".

(C) dúvida, e equivale à expressão "de modo algum".

(D) afirmação, e equivale à expressão "com certeza".

(E) intensidade, e equivale à expressão "por completo".

09. Considerando a relação de sentido que estabelecem na frase – Mas nem podia ser diferente**:** minha única ida ao cinema nos últimos dez anos... –, os dois-pontos (**:**) podem ser substituídos, sem prejuízo de sentido ao texto, pelo termo destacado em:

(A) Mas nem podia ser diferente, **se** minha única ida ao cinema nos últimos dez anos...

(B) Mas nem podia ser diferente, **pois** minha única ida ao cinema nos últimos dez anos...

(C) Mas nem podia ser diferente, **todavia** minha única ida ao cinema nos últimos dez anos...

(D) Mas nem podia ser diferente, **conforme** minha única ida ao cinema nos últimos dez anos...

(E) Mas nem podia ser diferente, **enquanto** minha única ida ao cinema nos últimos dez anos...

10. Assinale a alternativa em que há palavra(s) empregada(s) em sentido figurado.

(A) Gosto de escrever sobre cinema com certa regularidade...

(B) ... embora, às vezes, alguém me reprove por só falar de filmes antigos.

(C) Mas nem podia ser diferente.

(D) minha única ida ao cinema nos últimos dez anos foi para uma sessão especial...

(E) ... exceto pelos maxilares triturando pipoca ao meu redor...

Leia o texto para responder às questões de números **11** a **15**.

Uma revolução a galope

Existiam 11 mil táxis em Londres na virada do século 19 para o 20. Todos pretos e elegantes, iguais aos de hoje. Só o motor que era diferente. Todos eram puxados por cavalos. Também tinha *ônibus* a cavalo. Cada um demandava 12 equinos por dia.

O transporte público equino mais as carroças e carruagens particulares resultavam numa população de 50 mil cavalos circulando pelo centro da capital britânica todos os dias. Valia o mesmo para todas as grandes cidades.

O toque dos cascos contra os paralelepípedos era o som característico das metrópoles. Uma sinfonia de "toc, toc, toc" vinda de todos os lados. Talvez tivesse o seu charme. Menos agradável era o produto do escapamento dos nossos garbosos amigos.

Cada cavalo produz 10 quilos de esterco por dia, o que garantia a Londres sozinha um pavimento constante de dejetos renovado a uma taxa de 500 toneladas a cada 24 horas.

Em 1894, o alemão Karl Benz lançava o primeiro carro com motor a combustão interna e produção em larga escala: o Benz Velo. Em 1903, um engenheiro de Detroit chamado Henry **emularia** Benz ao criar uma empresa com o seu sobrenome, a Ford, voltada a tornar carros tão baratos quanto carroças. Pronto: em relativamente pouco tempo, o esterco deixaria de ser um problema. Mas, claro, vieram outros. O escapamento das máquinas de Karl Benz, Henry Ford e cia revelaria-se ainda mais pernicioso que o dos cavalos.

Os catalisadores, que reduzem brutalmente a emissão de monóxido de carbono, ajudariam mais tarde a baixar a poluição das cidades para níveis menos intoleráveis. Mas as leis da física não permitem filtrar do escape outro subproduto da combustão, ainda mais danoso, o dióxido de carbono. E não dá mais para brincar com o clima. Logo, a transição para os carros elétricos é inevitável.

(Editorial. *Revista Superinteressante*. Edição 430. Agosto 2021)

11. De acordo com o texto,

(A) na virada do século 19 para o 20, Londres destacava-se entre as grandes cidades como a única a contar com transporte inclusive de ônibus a cavalo.

(B) a despeito do seu charme, a antiga locomoção realizada a cavalo tinha o inconveniente de não permitir a criação de um sistema de transporte público.

(C) com a invenção do motor a combustão, os automóveis diminuíram a poluição para níveis menos prejudiciais que a resultante do esterco dos cavalos.

(D) com a invenção do automóvel, acabava-se o problema do acúmulo de esterco, mas a poluição dos motores se mostraria mais nociva que a gerada pelos cavalos.

(E) devido a novas tecnologias capazes de eliminar os subprodutos dos motores automotivos a combustão, reduziu-se a demanda por automóveis elétricos.

12. Na seguinte frase do texto, é estabelecida uma relação com sentido de comparação:

(A) Existiam 11 mil táxis em Londres na virada do século 19 para o 20. (1º parágrafo)

(B) O toque dos cascos contra os paralelepípedos era o som característico das metrópoles. (3º parágrafo)

(C) ... uma empresa com o seu sobrenome, a Ford, voltada a tornar carros tão baratos quanto carroças. (5º parágrafo)

(D) Em 1894, o alemão Karl Benz lançava o primeiro carro com motor a combustão interna... (5º parágrafo)

(E) Os catalisadores, que reduzem brutalmente a emissão de monóxido de carbono... (último parágrafo)

13. O termo destacado na frase do penúltimo parágrafo – O escapamento das máquinas de Karl Benz, Henry Ford e cia revelaria-se ainda mais **pernicioso**... – tem sentido equivalente ao do termo destacado em:

(A) Todos pretos e elegantes, iguais aos de hoje. Só o motor que era **diferente**. (1º parágrafo)

(B) Uma sinfonia de "toc, toc, toc" vinda de todos os lados. Talvez tivesse o seu **charme**. (3º parágrafo)

(C) Menos agradável era o produto do escapamento dos nossos **garbosos** amigos. (3º parágrafo)

(D) E não dá mais para brincar com o clima. Logo, a transição para os carros elétricos é **inevitável**. (último parágrafo)

(E) ... as leis da física não permitem filtrar do escape outro subproduto da combustão, ainda mais **danoso**... (último parágrafo)

14. O termo "**emularia**", destacado no penúltimo parágrafo do texto, expressa a ideia de que o engenheiro de Detroit chamado Henri

(A) seguiria o exemplo do alemão Karl Benz, ao criar uma empresa com seu sobrenome.

(B) inovaria, ao se tornar a primeira pessoa a dar o sobrenome a uma empresa automotiva.

(C) falharia em seu objetivo de fazer com que as carroças fossem substituídas por carros.

(D) rivalizaria com o alemão Karl Benz pelo direito de ter o sobrenome associado à empresa.

(E) superaria o alemão Karl Benz, ao conseguir produzir veículos de qualidade ainda melhor.

15. A reescrita da frase do primeiro parágrafo – Cada um demandava 12 equinos por dia. – está em conformidade com a norma-padrão de concordância da língua portuguesa em:

(A) Para cada um, eram exigidos 12 equinos por dia.

(B) Cada um deles exigiam 12 equinos por dia.

(C) Para cada um, era exigido 12 equinos por dia.

(D) Eles exigia, cada um, 12 equinos por dia.

(E) Era exigido, para cada um, 12 equinos por dia.

MATEMÁTICA

16. Uma escola comprou várias caixas de giz, sendo $\frac{3}{8}$ delas de giz colorido, e as 15 caixas restantes, de giz branco. O número total de caixas de giz (branco + colorido) compradas pela escola foi

(A) 16.

(B) 24.

(C) 32.

(D) 40.

(E) 48.

17. O setor de fotocópias de uma empresa recebeu determinado número de pacotes de papel sulfite, que serão empilhados, de modo que cada pilha fique com o mesmo número de pacotes. O funcionário do setor percebeu que é possível fazer pilhas com 12 pacotes em cada uma, ou com 15 pacotes, ou, ainda, com 18 pacotes, e qualquer que seja a opção não restarão pacotes fora das pilhas. O menor número de pacotes recebidos por esse setor foi

(A) 350.

(B) 300.

(C) 240.

(D) 180.

(E) 120.

R A S C U N H O

18. No pátio de uma escola, no horário do intervalo, havia 150 crianças, das quais 60% eram do Ensino Fundamental I e as demais do Ensino Fundamental II. Entre as crianças do Ensino Fundamental II, 45% eram meninos e, entre as crianças do Ensino Fundamental I, havia 40 meninos. O número total de meninos nesse pátio era

(A) 67.

(B) 76.

(C) 82.

(D) 89.

(E) 95.

19. Para uma festa, foram compradas garrafas de suco e de refrigerante, no total de 24 garrafas. Se a razão do número de garrafas de suco para o número de garrafas de refrigerante foi $\frac{3}{5}$, então o número de garrafas compradas de refrigerante foi

(A) 9.

(B) 12.

(C) 15.

(D) 18.

(E) 21.

20. Uma máquina, trabalhando sem parar, produz 320 peças em 30 minutos. Nessas condições, o tempo necessário para que essa máquina produza 800 dessas peças é de

(A) 55 minutos.

(B) 1 hora.

(C) 1 hora e 5 minutos.

(D) 1 hora e 10 minutos.

(E) 1 hora e 15 minutos.

21. Em um cesto, há determinado número de bombons que serão distribuídos entre as crianças presentes em uma festa, de modo que cada criança receba o mesmo número de bombons. Se cada criança receber 2 bombons, restarão 15 bombons no cesto, mas se cada criança receber 3 bombons, restarão apenas 5 bombons no cesto. O número de bombons que há, nesse cesto, é

(A) 45.

(B) 40.

(C) 35.

(D) 30.

(E) 25.

22. A secretária de uma escola organizou 80 prontuários de alunos em dois dias. Sabendo que, no segundo dia, ela organizou 22 prontuários a mais do que no primeiro dia, então, o número de prontuários organizados no segundo dia foi

(A) 29.

(B) 37.

(C) 46.

(D) 51.

(E) 55.

R A S C U N H O

23. Uma empresa comercializa 5 tipos diferentes de cestas básicas. A tabela mostra o valor de cada tipo de cesta.

Tipo de cesta	Valor da cesta
A	R$ 160,00
B	R$ 210,00
C	R$ 280,00
D	R$ 320,00
E	R$ 370,00

Na média, o valor de uma cesta dessa empresa sai por

(A) R$ 257,00.

(B) R$ 268,00.

(C) R$ 274,00.

(D) R$ 285,00.

(E) R$ 292,00.

24. Um pátio retangular tem 25 m de comprimento, conforme mostra a figura.

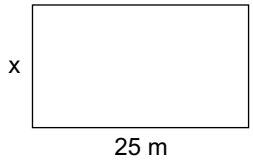

Figura fora de escala

Se a área desse pátio é 375 m^2, o seu perímetro é igual a

(A) 60 m.

(B) 65 m.

(C) 70 m.

(D) 75 m.

(E) 80 m.

25. Um pedaço de queijo tem a forma de um prisma reto de base retangular, conforme mostra a figura.

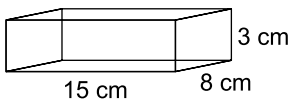

Figura fora de escala

Se 200 cm^3 custa R$ 30,00, o valor desse pedaço é

(A) R$ 54,00.

(B) R$ 58,00.

(C) R$ 62,00.

(D) R$ 66,00.

(E) R$ 70,00.

R A S C U N H O

26. Tem-se o seguinte texto editado no Microsoft Word 2016, em sua configuração original, com as marcas de parágrafo ativadas.



São 4 parágrafos, sendo que, além das formatações de negrito, itálico e sublinhado entre eles, no primeiro existe um marcador simbólico, no segundo, o texto está centralizado e, no terceiro, existem espaços em branco no início do texto.

Assinale a alternativa com o formato do texto quando o usuário seleciona os 4 parágrafos e clica no ícone Limpar Toda a Formatação, da guia Página Inicial, grupo Fonte, conforme destaque na imagem a seguir.

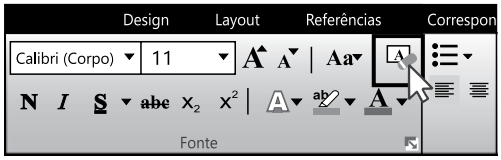

(A)



(B)



(C)

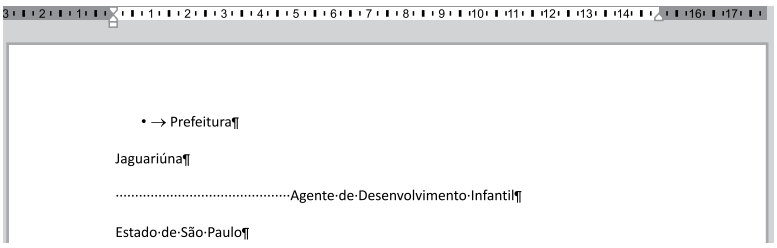

(D)



(E)

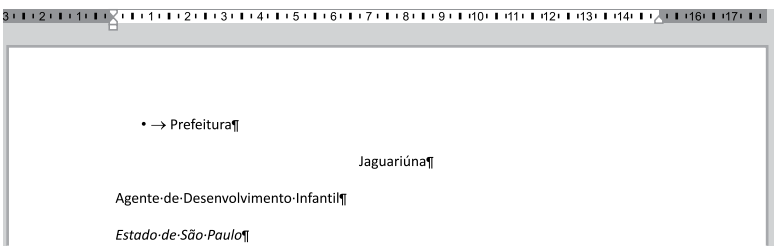

27. No Microsoft Windows 10, em sua configuração padrão, um usuário clicou com o botão invertido do mouse em um espaço em branco na Área de Trabalho, selecionou a opção Novo e clicou em Pasta. Atribuiu o nome Atividades e pressionou ENTER. Logo em seguida, clicou com o botão invertido do mouse novamente em um espaço em branco na Área de Trabalho, selecionou a opção Novo e clicou em Arquivo texto, atribuiu o nome Digital.txt e pressionou ENTER. Assinale a alternativa correta sobre o local onde a pasta e o arquivo foram criados, considerando que o usuário tem todas as permissões e o computador dispõe de espaço suficiente no disco rígido.

(A) A pasta foi criada na Área de Trabalho e o arquivo foi criado na pasta Documentos.

(B) A pasta foi criada dentro da pasta Documentos e o arquivo foi criado na Área de Trabalho.

(C) A pasta e o arquivo foram criados dentro da pasta Documentos.

(D) A pasta foi criada na Área de Trabalho e o arquivo foi criado dentro da pasta Atividades, recém-criada.

(E) A pasta e o arquivo foram criados, cada um com seu ícone, na Área de Trabalho.

28. Tem-se a seguinte planilha, criada no Microsoft Excel 2016, em sua configuração padrão:

	A
1	5
2	5
3	4
4	–14

A célula A4 contém a função =–SOMA(A1:A3). Observe o sinal de menos após o sinal de igual, gerando assim o resultado –14. Assinale a alternativa com uma fórmula que produz o mesmo resultado –14.

(A) =–A1+A2+A3

(B) =–A1–A2–A3

(C) =A1+A2+A3

(D) =A1–A2–A3

(E) =A1+A2–A3

29. Usuário preparou uma apresentação no Microsoft PowerPoint 2016, em sua configuração original, com as seguintes características:

I – Slide 1, oculto, sem nenhuma transição, sem animações.

II – Slide 2, não oculto, transição Esmaecer, sem animações.

III – Slide 3, oculto, transição Esmaecer, 2 formas sendo cada uma com animações ativadas por clique.

IV – Slide 4, não oculto, sem transição, 2 formas sendo cada uma com animações ativadas por clique.

V – Slide 5, oculto, transição Esmaecer, sem animações.

Esse usuário iniciou o Modo de Apresentação, pressionando a tecla F5. Assinale a alternativa que indica qual slide será exibido na tela após o usuário ter pressionado apenas a tecla ENTER 2 vezes.

(A) 1

(B) 2

(C) 3

(D) 4

(E) 5

30. Uma mensagem que está na Caixa de Entrada do Microsoft Outlook 2016 do usuário João, em sua configuração padrão, indica que

(A) está gravada como um rascunho e pronta para o João enviar.

(B) foi enviada com sucesso pelo João, e já recebida pelo destinatário.

(C) é uma mensagem recebida com sucesso pelo João.

(D) foi enviada pelo João, mas ainda não foi recebida pelo destinatário.

(E) foi automaticamente recuperada da Lixeira de João após o prazo de 30 dias.

CONHECIMENTOS ESPECÍFICOS

31. Suponha que João, Pedro e Paulo desejam criar uma associação que tem por fim proteger animais abandonados do Município de Jaguariúna. Considerando a situação hipotética e o disposto no art. 5º da Constituição Federal, é correto afirmar que

(A) a criação da associação depende de autorização estatal prévia, sendo vedada a interferência governamental em seu funcionamento.

(B) uma vez constituída a associação, ela apenas poderá ser compulsoriamente dissolvida por meio de decisão judicial, dispensando-se, para isso, o trânsito em julgado.

(C) caso João, Pedro e Paulo realmente constituam a associação, eles são compelidos legalmente a permanecer associados a ela.

(D) uma vez constituída a associação, se expressamente autorizada, ela tem legitimidade para representar seus filiados judicial ou extrajudicialmente.

(E) caso a associação deseje realizar reunião em espaço público, deverá solicitar prévia autorização à autoridade competente.

32. A respeito Da Segurança Pública, assinale a alternativa que está de acordo com a Constituição Federal.

(A) Exercer as funções de polícia marítima, aeroportuária e de fronteiras está entre as atribuições das policiais civis.

(B) Às polícias civis incumbem as funções de polícia judiciária e a apuração de infrações penais, inclusive as militares.

(C) Somente os Municípios com mais de 60 (sessenta) mil habitantes podem constituir guardas municipais destinadas à proteção de seus bens e instalações.

(D) À polícia civil cabem a polícia ostensiva e a preservação da ordem pública; aos corpos de bombeiros militares incumbe a execução de atividades de defesa civil.

(E) Às polícias penais, vinculadas ao órgão administrador do sistema penal da unidade federativa a que pertencem, cabe a segurança dos estabelecimentos penais.

33. Suponha que Carlos está passando por problemas pessoais e, ao desabafar com Matheus, amigo de infância, este o induziu a suicidar-se, prestando-lhe inclusive auxílio material para que assim procedesse. Considerando a situação hipotética e o disposto no Código Penal, é correto afirmar que

(A) se o suicídio de Carlos se consumar por meio do auxílio material prestado por Matheus, este terá cometido o crime de homicídio simples.

(B) se Carlos se suicidar após o induzimento realizado por Matheus, este terá praticado o crime de homicídio culposo.

(C) a pena será triplicada se a conduta de Matheus tiver sido realizada por meio da rede de computadores, de rede social ou transmitida em tempo real.

(D) se o suicídio se consumar, a pena de Matheus será de reclusão, de 2 (dois) a 6 (seis) anos.

(E) se o suicídio de Carlos se consumar por meio do auxílio material prestado por Matheus, este terá cometido o crime de homicídio qualificado.

34. Considere que Luan e Otávio, de forma consciente e voluntária, uniram-se para perseguir, reiteradamente, João, perturbando sua esfera de liberdade e privacidade. Considerando a situação apresentada e o disposto no Código Penal, é correto afirmar que hipoteticamente Luan e Otávio cometeram o crime de

(A) constrangimento ilegal, sujeito à pena de detenção de três meses a um ano, ou multa.

(B) perseguição, sujeito à pena de detenção, de um a seis meses, ou multa.

(C) perseguição, e somente se procede mediante representação.

(D) constrangimento ilegal, e somente se procede mediante representação de João.

(E) ameaça, e a pena deve ser aumentada de metade, pois o crime foi cometido mediante concurso de duas pessoas.

35. A respeito do crime de furto, assinale a alternativa que está de acordo com o Código Penal.

(A) Considera-se como furto qualificado quando a subtração, para si ou para outrem, de coisa alheia móvel é cometida mediante concurso de duas ou mais pessoas.

(B) A pena é de reclusão de 1 (um) a 5 (cinco) anos e multa, se houver emprego de explosivo ou de artefato análogo que cause perigo comum.

(C) Não se equipara à coisa móvel a energia elétrica.

(D) Furto com emprego de chave falsa não é considerado como qualificado.

(E) A pena é de reclusão de 4 (quatro) a 10 (dez) anos se a subtração for de semovente domesticável de produção.

36. Suponha que Luciana é funcionária pública e exigiu para si, indiretamente, fora da função, mas em razão dela, vantagem indevida a Carlos. Considerando a situação apresentada e o disposto no Código Penal, hipoteticamente é correto afirmar que Luciana praticou o crime de

(A) prevaricação.

(B) advocacia administrativa.

(C) corrupção passiva.

(D) excesso de exação.

(E) concussão.

37. A respeito da Prisão em Flagrante, assinale a alternativa que está de acordo com o Código de Processo Penal.

(A) A falta de testemunhas da infração não impedirá o auto de prisão em flagrante; mas, nesse caso, com o condutor, deverão assiná-lo pelo menos 3 (três) pessoas que hajam testemunhado a apresentação do preso à autoridade.

(B) Se o juiz verificar que o agente é reincidente ou que integra organização criminosa armada ou milícia, ou que porta arma de fogo de uso restrito, deverá denegar a liberdade provisória, com ou sem medidas cautelares.

(C) Após receber o auto de prisão em flagrante, no prazo máximo de até 48 (quarenta e oito) horas após a realização da prisão, o juiz deverá promover audiência de custódia.

(D) A prisão de qualquer pessoa e o local onde se encontre serão comunicados em até 24 (vinte e quatro) horas ao juiz competente, ao Ministério Público e à família do preso.

(E) Quando o acusado se recusar a assinar, não souber ou não puder fazê-lo, o auto de prisão em flagrante será assinado por pelo menos três testemunhas, que tenham ouvido sua leitura na presença deste.

38. Considere que Fátima reside no município de Jaguariúna, é solteira, não possui ensino superior completo, é reconhecidamente portadora de idoneidade moral e tem apenas 25 (vinte e cinco) anos de idade. Ela deseja se candidatar para membro do Conselho Tutelar do referido município. Com base no caso narrado e no disposto no Estatuto da Criança e do Adolescente, é correto afirmar que Fátima

(A) não possui todos os requisitos para a candidatura a membro do Conselho Tutelar, visto que não tem a idade mínima exigida, que é de 30 (trinta) anos.

(B) preenche todos os requisitos para a candidatura, e, se eleita, estará entre suas atribuições requisitar certidões de nascimento e de óbito de criança ou adolescente quando necessário.

(C) não preenche todos os requisitos para a candidatura a membro do Conselho Tutelar, pois não possui ensino superior completo.

(D) preenche todos os requisitos para a candidatura e, se eleita, não terá direito à gratificação natalina, mas terá cobertura previdenciária, férias anuais remuneradas, acrescidas de 1/3 (um terço) da remuneração mensal.

(E) não possui todos os requisitos para a candidatura a membro do Conselho Tutelar, pois não é casada.

39. Suponha que Luiz tem 21 (vinte e um) anos e forneceu, gratuitamente, bebida alcoólica a Romeu, que tem 16 (dezesseis) anos. Com base no disposto no Estatuto da Criança e do Adolescente, é correto afirmar que hipoteticamente Luiz

(A) apenas teria cometido crime se houvesse vendido a bebida alcoólica a Romeu.

(B) não cometeu crime, pois Romeu já tem 16 (dezesseis) anos de idade.

(C) apenas teria cometido crime se Romeu tivesse menos de 12 (doze) anos de idade.

(D) praticou crime sujeito à pena de detenção, e multa, se o fato não constituir crime mais grave.

(E) praticou ato infracional sujeito à pena de reclusão e multa, se o fato não for considerado crime mais grave.

40. Considere que Francisco tem 85 (oitenta e cinco) anos e deseja saber seus direitos. De acordo com o Estatuto do Idoso, é correto afirmar que

(A) por ter mais de 80 (oitenta) anos, ele tem prioridade especial, atendendo-se suas necessidades sempre preferencialmente em relação aos demais idosos.

(B) é dever exclusivo do Estado prevenir a ameaça ou violação aos direitos de Francisco.

(C) a garantia de prioridade não compreende o estabelecimento de mecanismos que favoreçam a divulgação de informações de caráter educativo sobre os aspectos biopsicossociais de envelhecimento.

(D) Francisco não tem preferência na formulação e na execução de políticas sociais públicas específicas.

(E) não está prevista no Estatuto do Idoso a prioridade no recebimento da restituição do Imposto de Renda.

41. Assinale a alternativa que está de acordo com o Estatuto do Desarmamento.

(A) A listagem dos empregados das empresas de segurança privada e de transporte de valores deverá ser atualizada anualmente junto ao Sinarm.

(B) Aos residentes em áreas rurais, maiores de 18 (dezoito) anos que comprovem depender de arma de fogo para prover sua subsistência alimentar, será concedido o porte de arma de fogo.

(C) O chefe do Ministério Público designará os servidores de seus quadros pessoais no exercício de funções de segurança que poderão portar arma de fogo, respeitado o limite máximo de 25% (vinte e cinco por cento) do número de servidores que exerçam funções de segurança.

(D) A autorização para o porte de arma de fogo de uso permitido, em todo o território nacional, é de competência do Ministério da Justiça e somente será concedida após autorização do Sinarm.

(E) Os Tribunais do Poder Judiciário são obrigados a registrar ocorrência policial e a comunicar à Polícia Federal eventual perda, furto, roubo ou outras formas de extravio de armas de fogo, acessórios e munições que estejam sob sua guarda, nas primeiras 24 (vinte e quatro) horas depois de ocorrido o fato.

42. Na Lei Maria da Penha, há a previsão de diversas formas de violência doméstica e familiar contra a mulher. De acordo com a referida lei, a violência moral pode ser entendida como qualquer conduta que

(A) ofenda sua integridade ou saúde corporal.

(B) cause dano emocional e diminuição da autoestima.

(C) configure calúnia, difamação ou injúria.

(D) prejudique e perturbe o pleno desenvolvimento.

(E) cause prejuízo à saúde psicológica e à autodeterminação.

43. Assinale a alternativa que está de acordo com a Lei nº 13.869/2019 (Lei de Abuso de Autoridade).

(A) A divergência na interpretação de lei ou na avaliação de fatos e provas configura abuso de autoridade.

(B) As penas restritivas de direitos não podem ser aplicadas autonomamente, mas somente cumulativamente com a de reclusão ou detenção.

(C) A lei prevê a suspensão do exercício do cargo, pelo prazo de 1 (um) mês a 2 (dois) anos, como uma das penas restritivas de direitos.

(D) Deixar injustificadamente de comunicar prisão em flagrante à autoridade judiciária no prazo legal não é crime, mas somente infração administrativa.

(E) Manter presos de ambos os sexos na mesma cela ou espaço de confinamento é crime sujeito à pena de detenção, de 1 (um) a 4 (quatro) anos, e multa.

44. Suponha que Flávio era réu primário, mas cometeu um crime de abuso de autoridade. Apesar de a sentença condenatória não ter declarado qualquer efeito da condenação, ele foi considerado inabilitado para o exercício de cargo, mandato ou função pública, pelo período de 5 (cinco) anos. Com base na situação hipotética e no disposto na Lei nº 13.869/2019 (Lei de Abuso de Autoridade), é correto afirmar que

(A) a inabilitação para o exercício de cargo, mandato ou função pública é efeito automático da condenação, prescindindo-se de declaração na sentença.

(B) a inabilitação para o exercício de cargo, mandato ou função pública deveria ter sido estabelecida pelo período de 8 (oito) anos, que é o tempo mínimo estabelecido na lei.

(C) Flávio não poderia ter sido inabilitado para o exercício de cargo, mandato ou função pública, mas apenas ter perdido o cargo que ocupava quando cometeu o crime.

(D) a inabilitação para o exercício de cargo, mandato ou função pública está condicionada à ocorrência de reincidência em crime de abuso de autoridade e não é automática.

(E) Flávio só poderia ter sido inabilitado para o exercício de cargo, mandato ou função pública por até 2 (dois) anos.

45. Assinale a alternativa que está de acordo com a Lei nº 13.022/2014 (Estatuto Geral das Guardas Municipais).

(A) Nos primeiros 10 (dez) anos de funcionamento, a guarda municipal poderá ser dirigida por profissional estranho a seus quadros.

(B) A estrutura hierárquica da guarda municipal pode utilizar denominação idêntica à das forças militares, quanto aos postos e graduações e títulos.

(C) Municípios limítrofes podem, mediante consórcio público, utilizar, reciprocamente, os serviços da guarda municipal de maneira compartilhada.

(D) Não faz parte do rol de requisitos básicos para investidura em cargo público na guarda municipal o gozo dos direitos políticos.

(E) As guardas municipais devem ficar sujeitas a regulamentos disciplinares de natureza militar.

46. De acordo com a Lei Complementar nº 160/2010 (Ouvidoria e Corregedoria da Guarda Municipal), a Ouvidoria da Guarda Municipal de Jaguariúna será composta por

(A) 5 (cinco) membros, para um mandato de 2 (dois) anos, sendo vedada a recondução.

(B) 3 (três) membros, dentre os servidores públicos concursados, indicados e nomeados pelo Prefeito, para um mandato de 2 (dois) anos, permitida a recondução por igual período.

(C) 7 (sete) membros, nomeados e indicados pelo Secretário de Segurança Pública, para um mandato de 2 (dois) anos, permitida a recondução por igual período.

(D) 5 (cinco) membros, nomeados e indicados pelo Secretário de Segurança Pública, para um mandato de 4 (quatro) anos, vedada a recondução.

(E) 10 (dez) membros, dentre os servidores públicos concursados, nomeados e indicados pelo Prefeito, para um mandato de 5 (cinco) anos.

47. De acordo com a Lei nº 13.022/2014 (Estatuto Geral das Guardas Municipais), é competência geral das guardas municipais a proteção de bens, serviços, logradouros públicos municipais e instalações do Município. Conforme consta na referida lei, esses bens abrangem os de

(A) particulares e os de uso comum.

(B) residentes no Município e os de uso especial.

(C) particulares e os dominiais.

(D) uso comum e os de uso especial, somente.

(E) uso comum, os de uso especial e os dominiais.

48. Assinale a alternativa que está de acordo com a Lei Complementar nº 134/2007 (Código de Posturas de Jaguariúna).

(A) Os brinquedos existentes em praças públicas destinam-se às crianças com idade de até 14 (catorze) anos.

(B) É vedado o uso de praças públicas e calçadas para jogos ou brincadeiras com bolas, bicicletas ou similares, excetuando-se os triciclos de pequeno porte.

(C) Admite-se o corte de árvores nos jardins e parques públicos sem o devido acompanhamento de técnicos da Prefeitura.

(D) A derrubada de mata natural dependerá de licença dos órgãos estaduais e federais competentes, mas nunca da Prefeitura.

(E) Faculta-se a todo munícipe o plantio de árvores defronte ao prédio de sua residência, podendo estas ser utilizadas como apoio ou suporte de objetos.

49. Considere que Francisco, residente no Município de Jaguariúna, está reformando sua casa e, para agilizar a execução da obra, transportou em seu carro, no último sábado às 14 (catorze) horas, pelas vias públicas do Município, areia e cascalho sem a devida e adequada cobertura. Com base no disposto na Lei Complementar nº 134/2007 (Código de Posturas de Jaguariúna), é correto afirmar que Francisco

(A) realizou uma conduta proibida expressamente pela lei.

(B) teria agido ilegalmente somente se tivesse realizado o transporte de areia e cascalho de segunda à sexta-feira.

(C) agiu conforme a lei, pois realizou o transporte de areia e cascalho após às 13 (treze) horas.

(D) agiu ilegalmente apenas no transporte de areia, visto que não há tal proibição para o transporte de cascalho.

(E) apenas teria agido legalmente se o transporte de areia e cascalho tivesse ocorrido domingo após as 16 (dezesseis) horas.

50. Suponha que Luciano é professor da rede pública municipal de ensino de Jaguariúna e se casou na quarta-feira dia 25 de agosto de 2021. De acordo com a Lei Complementar nº 209/2012 (Estatuto dos servidores públicos do Município de Jaguariúna), é correto afirmar que em virtude do casamento Luciano poderá deixar de comparecer ao trabalho

(A) sem prejuízo dos seus vencimentos por até 3 (três) dias úteis consecutivos.

(B) sem prejuízo dos seus vencimentos por 9 (nove) dias consecutivos.

(C) com prejuízo dos seus vencimentos por 5 (cinco) dias úteis consecutivos.

(D) com prejuízo dos seus vencimentos por até 3 (três) dias úteis consecutivos.

(E) sem prejuízo dos seus vencimentos por 10 (dez) dias consecutivos.

Confidencial até o momento da aplicação.